Cm2

Nom: .....

Prénom: .....

- Correspondance entre fraction et nombre décimal.
- Placement et repérerage sur une droite numérique.

Fiche 9b

Numération

Exercices

Lire et écrire les nombres décimaux

1 Ecris ces fractions sous forme d'un nombre décimal.

$\frac{12}{10} = ...$ $\frac{45}{10} = ...$ $\frac{86}{10} = ...$ $\frac{152}{10} = ...$ $\frac{101}{10} = ...$

$\frac{12}{100} = ...$ $\frac{45}{100} = ...$ $\frac{86}{100} = ...$ $\frac{152}{100} = ...$ $\frac{101}{100} = ...$

2 Ecris sous forme d'un nombre décimal. Ex : $1 + \frac{5}{10} = 1{,}5$

$1 + \frac{2}{10} = ...$ $1 + \frac{8}{10} = ...$ $12 + \frac{5}{10} = ...$ $17 + \frac{5}{10} + \frac{3}{100} = ...$

$1 + \frac{1}{100} = ...$ $2 + \frac{7}{100} = ...$ $7 + \frac{11}{100} = ...$ $20 + \frac{15}{100} = ...$

3 Place les points suivants sur la droite numérique.

A= 0,5 B= 0,8 C=1,5 D= 1,9 E= 2,1 F= 2,9

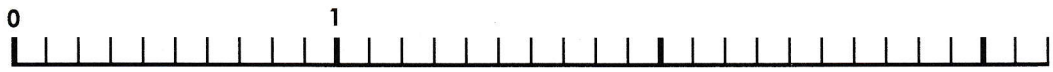

A= 0,01 B= 0,1 C=0,09 D= 0,2 E= 0,15 F= 0,26

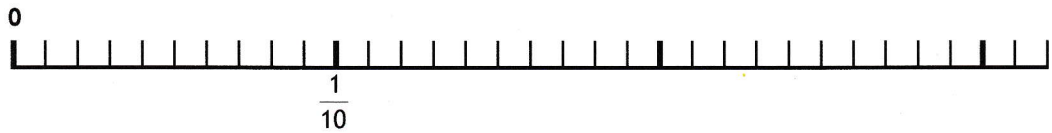

4 Ecris les points marqués sous forme d'un nombre décimal.

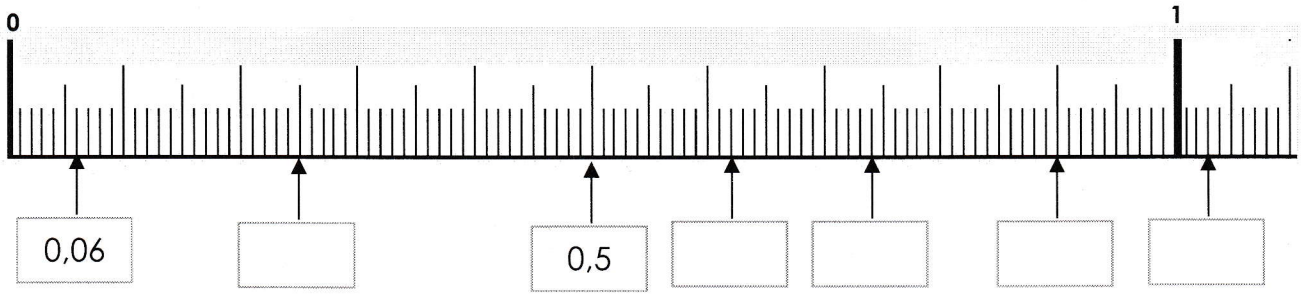

http://www.i-profs.fr